PROBLEMAS CON PORCENTAJES

Nombre y apellidos: .....

Curso: ..... Fecha: .....

- **Un barco pesquero ha capturado cuatro toneladas de pescado, de las que el 45 % es sardina, el 15 % es boquerón y el resto es jurel. ¿Cuántos kilos de cada tipo de pescado lleva el barco?**



- **Aprovechando las rebajas de unos grandes almacenes, he comprado un televisor y un vídeo. El televisor vale 630 € y el vídeo, 280 €, pero me han rebajado un 12 % en el primero y un 8 % en el segundo. ¿Cuánto pagaré por ambos aparatos?**



- **El 15 % de los 200 científicos que acuden a un congreso son africanos, el 25 % europeos, el 10 % asiáticos y el resto americanos. ¿Qué porcentaje de los asistentes son americanos? ¿Cuántos congresistas son de este continente?**

RECURSOSEP
www.recursosep.com

PROBLEMAS CON PORCENTAJES

Nombre y apellidos: .....

Curso: ..... Fecha: .....

- **Un libro que valía el año pasado 22,50 €, ha subido un 12 %. Si en la librería me hacen un descuento de un 7 %, ¿cuánto pagaré por el libro?**



- **Durante un partido, un jugador de baloncesto tuvo un porcentaje de aciertos en lanzamientos de triples del 65 % y otro jugador de su mismo equipo, del 75 %. ¿Cuál de los dos consiguió más puntos si el primero lanzó 20 veces y el segundo, 16? ¿Cuántos puntos consiguieron entre los dos en los lanzamientos de tres puntos?**

- **La factura de teléfono de una familia es de 65 euros, a falta de añadir el 21 % de IVA. ¿Cuánto supone el IVA? ¿Cuál es el precio final de la factura?**

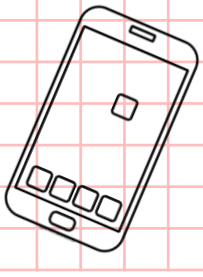

RECURSOSEP
www.recursosep.com