3º EDUCACIÓN PRIMARIA					
HORARIO SEMANA DO 23 DE Ó 28 DE MARZO					
1º	LUNS	MARTES	MÉRCORES	XOVES	VENRES
1º	MATE	INGLÉS	MATE	INGLÉS	MATE
2º	LINGUA G.	L. CASTELÁ	C. NATURAIS	C. SOCIAIS	INGLÉS
3º	20 MINUTOS DE LECTURA				
4º	C. NATURAIS	C. SOCIAIS	LINGUA G.	L. CASTELÁ	INFORMÁTICA
6º	PASATEMPOS	PLÁSTICA	PASATEMPOS	PLÁSTICA	

ORIENTACIÓNS:

- ✔ Non olvidedes poñer a data antes de comezar.
- ✔ Recomendamos facer as tarefas nunha libreta.
- ✔ Respetar os márxenes pola dereita e pola esquerda.
- ✔ Recordade poñer o enunciado a boli e resolver a lápiz.
- ✔ Facede os traballos amodiño e con boa letra.
- ✔ Tede preparado un libro para ler.
- ✔ Sería aconsellable que fixésedes o traballo tódolos dias no mesmo horario.
- ✔ Traballade no mesmo lugar tódolos días, así xa tedes o material todo xunto.
- ✔ Realizade o traballo nun lugar tranquilo, sen ruído nin interrupcións.
- ✔ Non olvides facer o diario.
- ✔ Cando haxa debuxos ou fotos poñede na libreta: foto 1º. debuxo1º...

LUNS 22 DE MARZO:

1º HORA - MATE

69 El curso de 4.º va a ir al parque zoológico. Cada entrada cuesta 6 €. ¿Cuánto dinero pagarán entre todos si hay 29 alumnos en cada clase y hay 4 clases de 4.º curso?

29x6 = 174 euros

174x4= 696 euros pagán en total

Respuesta: _____

70 A mis primos y a mí nos han regalado una bicicleta a cada uno. ¿Cuánto dinero se han gastado si cada bicicleta cuesta 134 € y tengo 4 primos?

134x5= 670 euros se han gastado

Respuesta: _____

71 A un espectáculo de agua, luz y sonido acuden 758 personas al día. ¿Cuántas personas acudirán en 9 días?

758x9= 6.822 personas

Respuesta: _____

72 Vladimir tiene 4 cajas con canicas. En cada caja guarda 250 canicas. ¿Cuántas canicas tiene?

250x4= 1.000 canicas

Respuesta: _____

73 ¿Cuántos días hay en 25 semanas?

25x7= 175 dias hay en 25 semanas

Respuesta: _____

2º HORA – LINGUA GALEGA:

Lembra

- Cando transmitimos aos demais informacións, ideas, sentimentos..., dicimos que hai **comunicación**.
- Os seres humanos comunicámonos, sobre todo, mediante a **linguaxe**. Pero tamén nos podemos comunicar con xestos, sons, sinais visuais...

1. Relaciona. Que forma de comunicación se emprega?

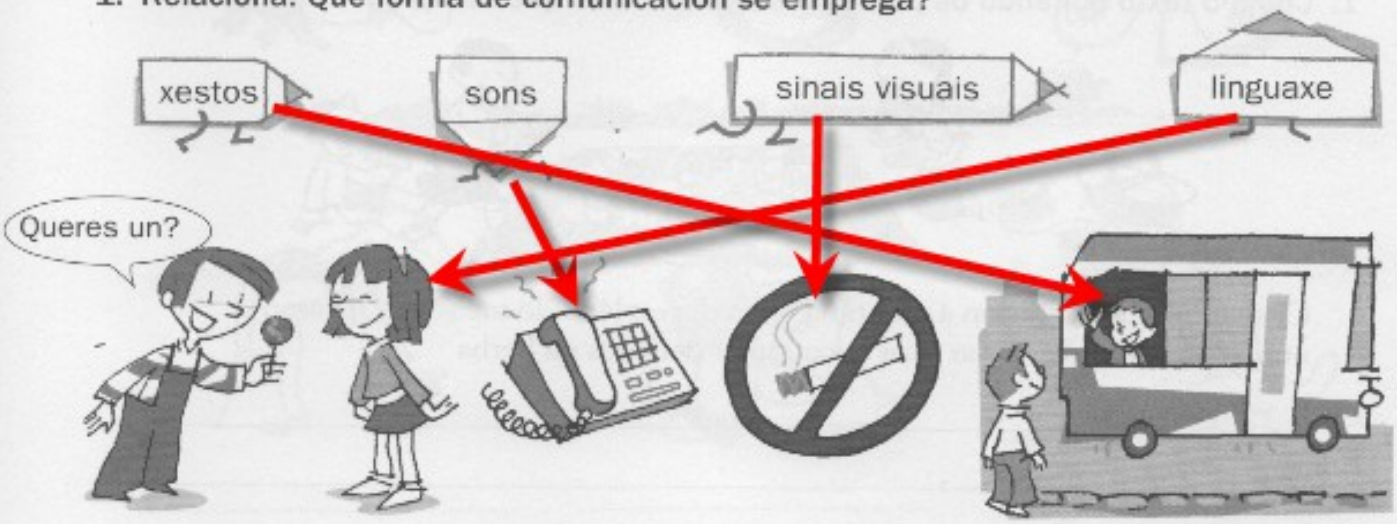

2. Explica con palabras o que está a dicir cada personaxe.

Silencio que o bebé está a durmir.

Non me gusta a sopa, comea que está moi rica.

3º HORA – LEMOS 20 MINUTOS.

Reforzo **2**

O punto

Nome _____ Data _____

Lembra

Cando escribimos, poñemos un **punto** (.) ao final de cada oración.
Hai tres tipos de punto:

- Punto e seguido. Separa dúas oracións do mesmo parágrafo.
- Punto e á parte. Separa dous parágrafos.
- Punto final. Escríbese ao final do texto.

1. Copia o texto poñendo os puntos e as maiúsculas que cumpran.

Onte fomos de excursión á montaña fa un día espléndido meus pais levaron
unha cesta chea de cousas ricas e xantamos deitados na herba

Onte fomos de excursión á montaña. Ia un día espléndido. Os meus pais levaron unha cesta chea de cousas ricas e xantamos deitados na herba

■ Marca. Que tipo de punto non empregaches no texto anterior?

☐ punto e seguido ☒ punto e á parte ☐ punto final

2. Debuxa e explica cal é o teu xoguete preferido. Vixía os puntos e as maiúsculas.

Resposta individual.

© 2008 Edicións Obradoiro, S. L. / Santillana Educación, S. L.

4º HORA – CIENCIAS NATURAIS.

BLOQUE 1

O SER HUMANO

Alimentación saudable

Nome _____ Data _____

REPASA ESTA INFORMACIÓN.

A dieta é o conxunto de alimentos que inxire unha persoa. É recomendable tomar alimentos variados e reducir o consumo daqueles que conteñen moito azucre e graxa.

Unha dieta saudable ten que ser suficiente e equilibrada. A roda dos alimentos permítenos organizar os alimentos e deseñar unha dieta adecuada que nos proporcione todos os nutrientes que necesitamos.

1 **Completa o texto coas seguintes palabras.**

bebidas – conxunto – alimentos – equilibrada – saudable

A dieta é o **conxunto** de todos os **alimentos**, incluíndo as comidas e as **bebidas**, que toma unha persoa. Unha dieta **equilibrada** debe ser suficiente e **saudable.**

2 **Que características debe cumprir unha dieta suficiente e equilibrada?**

Debemos de comer de todo en sufientes cantidades, para que nos aporte a cantidade axeitada de cada nutriente.

3 **Subliña a opción máis saudable e explica brevemente o porqué da túa elección.**

- Carne vermella ou carne de ave.

Por que ten menos cantidade de graxas.

- Aceite de oliva ou touciño.

Por que son millor as graxas de orixe vexetal

Material fotocopiable © 2015 Santillana Educación, S. L. / Edicións Obradoiro, S. L.

5º HORA – PASATEMPOS.



Haz que la igualdad sea correcta moviendo y reacomodando tan solo un palillo.

Muevo el palillo para la izquierda y así:

III - II = I

MARTES 23 DE MARZO

1ª HORA - INGLÉS
2ª HORA L. CASTELÁ.

Nombre _____ Fecha _____

Ojo acuático

¿Quieres ver mejor las criaturas que viven en los estanques y arroyos? Con este sencillo utensilio, que tú mismo puedes construir fácilmente, lo lograrás.

MATERIALES

- Un vaso de plástico
- Unas tijeras
- Plástico adherente
- Dos gomas

1. Sujeta firmemente con una mano el vaso de plástico. Coge las tijeras y corta con cuidado el fondo del vaso.

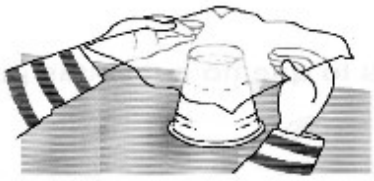

2. Corta un trozo de plástico adherente. Cubre el vaso con el plástico, teniendo cuidado de que no se arrugue.



3. Pon las gomas en torno al vaso para que el plástico se mantenga en su lugar. Tira de nuevo de él para que se estire.

4. Para usar el ojo acuático, mete en el agua la parte con el plástico. Ahora, mira por la parte superior del vaso.

1 **¿Para qué sirve el ojo acuático? Marca.**

- [ ] Para ver más grande una imagen que está lejos.
- [x] Para ver mejor algo que está bajo el agua.
- [ ] Para ver más pequeña una imagen que está cerca.
- [ ] Para ver mejor algo que está fuera del agua.

3ºHORA CIENCIAS SOCIAIS.

TERRA: tercer planeta do Sistema Solar.

TRASLACIÓN: movemento da Terra ao redor do Sol.

LÚA CHEA: fase da lúa na que se ve completamente.

MERCURIO:primeiro planeta do Sistema Solar.

VERÁN: comeza o 21 de xuño.

SOL: nome da estrela do Sistema Solar.

NEPTUNO: último planeta do Sistema Solar.

CUARTO CRECENTE: fase da Lúa na cal ten forma de D.

ROTACIÓN: movemento da Terra sobre si mesma

OUTONO: comeza o 21 de septembro

SATURNO: sexto planeta do Sistema Solar.

URANO:séptimo planeta do Sistema Solar.

ASTEROIDE: corpo celeste que xira arredor dun planeta.

LÚA NOVA: fase da Lúa na que non se ve a súa superficie.

XÚPITER: planeta máis grande do Sistema Solar.

MARTE:cuarto planeta do Sistema Solar.

PALABRAS QUE FALTAN:

PRIMAVEIRA: comeza o 21 de marzo.

INVERNO: comeza o 21 de decembro.

CUARTO DECRECENTE: fase da Lúa na cal ten forma de C.

ESTRELA: corpo celeste que é unha masa de gas e emite luz e calor.

27 DÍAS: tempo que tarda a Lúa en dar unha volta ao redor da Terra.

PLANETESIMAL: obxectos rocosos máis pequenos que un planeta.

COMETA: astros formados por gases e polvo conxelados que ao acercarse ao Sol evapóranse e forman unha cola.

MÉRCORES 24 DE MARZO

1º HORA MATE:

58 Mario, Luis y Pedro están haciendo cada uno un rompecabezas de 12 piezas. ¿Cuántas piezas ha colocado ya cada niño? Observa los dibujos y complétalos como corresponda.



- Mario ha puesto la mitad de las piezas.

Respuesta: 12 : 6 = 2 piezas colocó Mario



- Luis ha puesto un tercio de las piezas.

Respuesta: 12 : 3 = 4 piezas colocó Luis



- Pedro ha puesto un cuarto.

Respuesta: 12 : 4 = 3 piezas colocó Pedro

59 Para el cumpleaños de mi hermano pequeño hemos comprado una bolsa de 24 caramelos.

- Calcula y colorea la cantidad de caramelos que hay de fresa, de limón y de naranja.

24: 2 = 12 caramelos de fresa

24 : 4 = 6 caramelos de limón

12 + 6 = 18
24 - 18 = 6 caramelos de naranja

La mitad de los caramelos son de fresa.

Un cuarto son de limón.

El resto son de naranja.

2º HORA – C. NATURAIS.

BLOQUE 1

O SER HUMANO

Os hábitos saudables

Nome _____ Data _____

REPASA ESTA INFORMACIÓN.

Os hábitos que nos axudan a coidar a saúde son os seguintes:
- Coidar a postura para non danar o lombo.
- Practicar exercicio físico para mellorar a saúde do corpo e a mente.
- Coidar a hixiene, pois evita enfermidades.
- Dedicar tempo ao lecer, a soas, con amigos e en familia.
- Durmir o suficiente, arredor de dez horas.

1 **Risca a opción incorrecta e escribe correctamente a frase.**

- O lombo está sostido pola *columna vertebral / o tórax e o abdome.*

  O lombo está sostido pola columna vertebral

- A nosa postura debe manter o lombo *descansado / recto.*

  A nosa postura debe manter o lombo recto

2 **Rodea as posturas correctas e risca as incorrectas.** Logo, explica por que son correctas as posturas que elixiches.

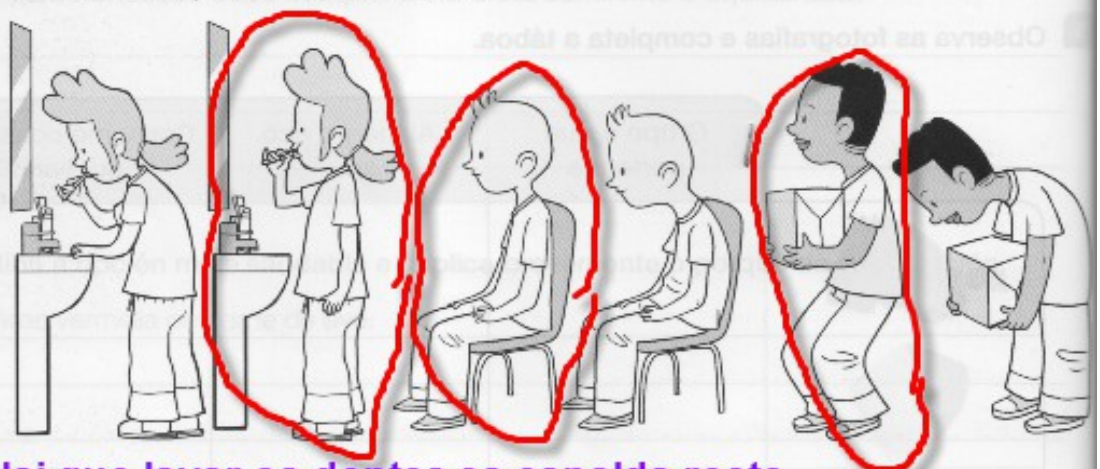

Hai que lavar os dentes ca espalda recto.

Na cadeira debo ter o lombo recto e pegado ó

Para coller un peso do solo debo doblar as pernas.

Material fotocopiable © 2015 Santillana Educación, S. L. / Edicións Obradoiro, S. L.

3 **Cando é conveniente lavar as mans?** Risca a opción incorrecta e copia as correctas para completar a oración.

Antes de comer | Despois de ir ao baño | Despois de xogar cunha mascota | Antes de durmir

Hai que lavar as mans _____, _____ e _____.

3º

4 **As seguintes oracións son falsas. Escríbeas de modo que sexan correctas.**

- O lecer non é o mesmo que o tempo libre.

O lecer é o mesmo que o tempo libre.

- As actividades de lecer teñen que realizarse sempre a soas.

As actividades de lecer poden que realizarse algunhas veces soas.

- As actividades de lecer non poden ser educativas.

As actividades de lecer deben ser educativas.

- Podemos gastar todo o noso tempo de lecer cos videoxogos.

Non podemos gastar todo o noso tempode lecer en videoxogos.

- Hai que durmir moi pouco, para aproveitar o tempo.

Hai que durmir polo menos 10 horas á nosa idade.

- Un neno de 3.º de Primaria debe durmir unhas seis horas diarias.

Un neno de primaria non pode durmir seis horas diarias.

Material fotocopiable © 2015 Santillana Educación, S. L. / Edicións Obradoiro, S. L.

HORA – LER 20 MINUTOS.

4º HORA – LINGUA GALEGA.

¿Entendiches ben?

1 Se entendiches ben esta lectura, responde agora a estas preguntas:

–¿Por que cres que a lista de Rosa tiña 23 nomes?

–¿Cal era a razón de que seu irmán preferise non ter nome ningún?

–¿Por que Rosa tiña que perseguir á xente para lles dici-la lista de nomes?

2 Escribe ti unha lista de nomes de persoa seguindo a orde alfabética.

4

1.- Polas letras do abecedario.

- Porque gracias ó nome saben quen es.
- Porque cada vez que lle preguntaban como se chamaba dicia a lista de 23 nomes.

2.- Resposta libre.

Palabras agachadas.

3 ¿Sabes que nomes se agachan detrás destas palabras?

LABESA	COCISFRAN	ÑARIMA
SABELA	FRANCISCO	MARIÑA
LOUZOREN	TICRISNA	DROPE
LORENZO	CRISTINA	PEDRO

5

5º HORA – PASATEMPOS.

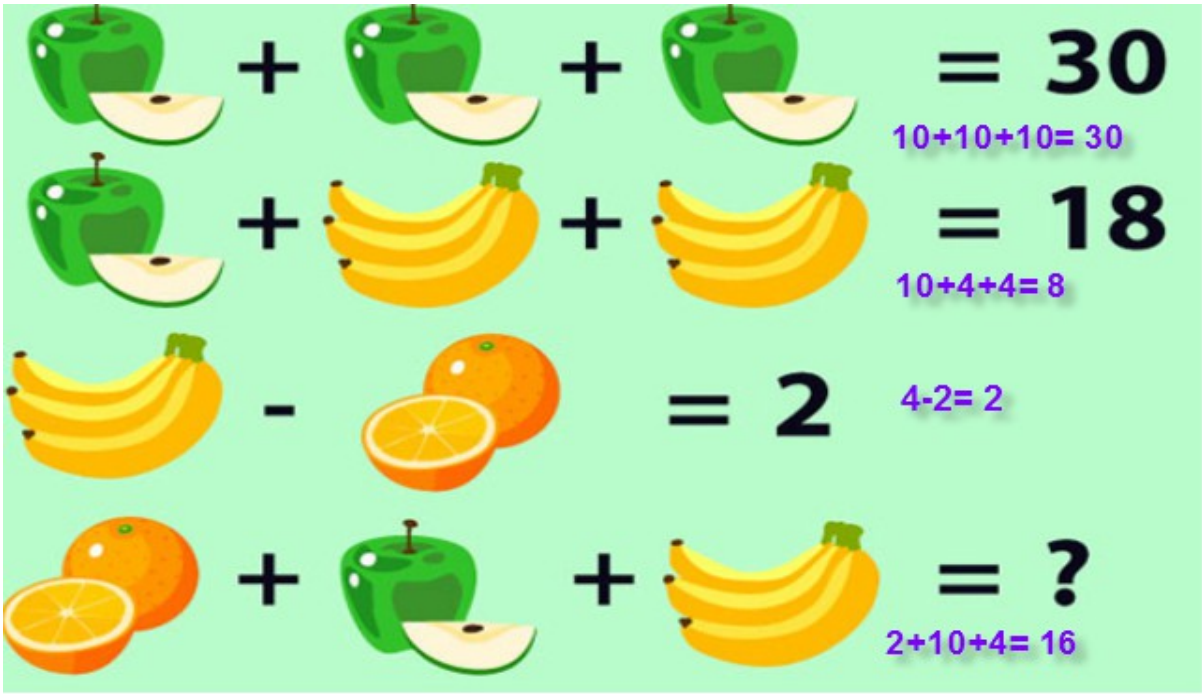

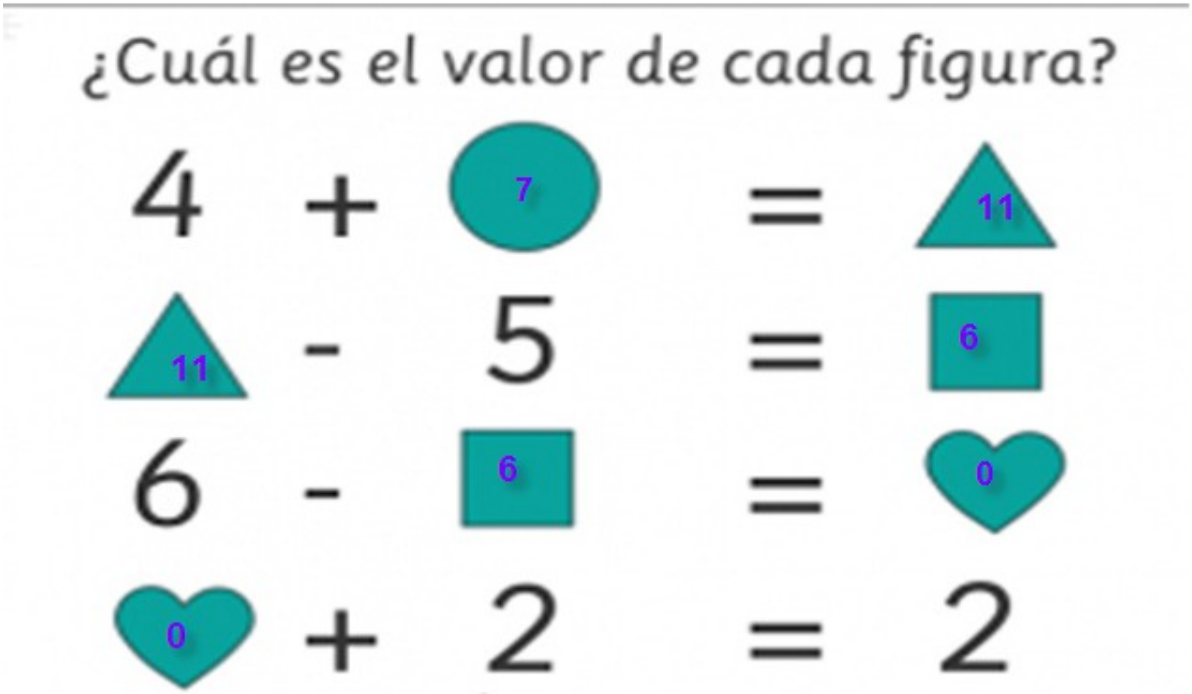

XOVES 25 DE MARZO:

2ª HORA – SOCIAIS

Indica se son verdadeiras ou falsas; as que sexan falsas corrixeas.

O movemento da Terra que orixina os días e as noites chámase **rotación**..... **F**

A parte líquida da Terra chámase **hidrosfera**..... **F**

Cando a Lúa non se ve no ceo nocturno chámase Lúa nova..... **V**

Os extremos do planeta chámanse polos..... **V**

O planeta que está máis próximo ao Sol é **Mercurio**..... **F**

A línea imaxinaria que divide a Terra en dúas metades é o Ecuador..... **V**

A Terra é o terceiro planeta do Sistema Solar.....**V**

Responde ás seguintes cuestións:

1. **Cantos planetas hai no Sistema Solar?**

Oito planetas.

2. **Que planeta ocupa a quinta posición? O nome deste planeta a quen se refire?**

Xúpiter. O nome deste planeta refírese ao deus máis importante dentro da mitoloxía romana; debido a que era o deus máis importante púxoselle este nome ao planeta máis grande do Sistema Solar.

3. **Indica que diferencia unha estrela dun planeta.**

Unha estrela é un astro que emite luz propia mentres que un planeta non.

3º HORA LENGUA CASTELÁ.

6 **Busca en el texto palabras con el sonido K.**

- Con *c* ▶ _____
- Con *qu* ▶ _____

Perdonar, lo sentimos no nos acordamos de poner el texto.

7 **Completa con *z* o *c*.**

- Z acarías usa siempre lombri C es como C ebo para pescar.
- Me gusta lan Z ar migas de pan a los pe C es y a los patos.
- Justo en el C entro del estanque había C ientos de nenúfares.

8 **¿En qué lengua está escrito el texto?**

Estaba aescrito en lengua castellana.

▶ ¿Qué otras lenguas conoces?

Inglés, francés, chino, japonés...

9 **¿Qué objetos tienen una función similar a la del ojo acuático?**

Escribe sus nombres.



Lupa

Prismáticos

10 **Piensa en alguna manualidad que hayas hecho y te haya gustado. ¿Qué era? ¿Cómo se hacía?**

Respuesta individual

100%

VENRES 26 DE MARZO:

1º HORA – MATE.

1º:- Coloca y divide:

674: 6 = 112 Y DE RESTO 2

835:7 =119 Y DE RESTO 2

2358: 3 =786

2º HORA – INGLÉS.

3º HORA – LER 20 MINUTOS.

4º HORA – INFORMÁTICA.

Tedes que abrir un documento de texto e copiar a seguinte adiviña. Recordade que a tedes que copiar tal e como está escrita a continuación!

ADIVIÑA:

Que animal é que cando é pequeño anda a catro patas,
de novo anda a dúas
e cando é vello anda a tres patas.

ATENCIÓN!!!

Cando acabedes podedes poñerlle nome e gardar o documento. Para utilizalo en outras clases.