Nombre _____ Fecha _____

❶ Fíjate en cómo están colocados los números y suma.

D U	D U	D U	D U
12	24	25	47
+ 2	+ 3	+ 24	+ 11
☐	☐	☐	☐

❷ Coloca los números y suma.

11 + 1 | 53 + 5 | 33 + 26 | 12 + 30

D U	D U	D U	D U
+	+	+	+

❸ Calcula cuánto cuestan en total.



Operación ▶

D U
+

Solución ▶ Cuestan _____ euros.

Restas con números de dos cifras

Nombre _____ Fecha _____

❶ Fíjate en cómo están colocados los números y resta.

D U	D U	D U	D U
37	24	46	38
− 4	− 12	− 4	− 10
☐	☐	☐	☐

D U	D U	D U	D U
58	63	45	77
− 21	− 22	− 44	− 66
☐	☐	☐	☐

❷ Coloca los números y calcula.

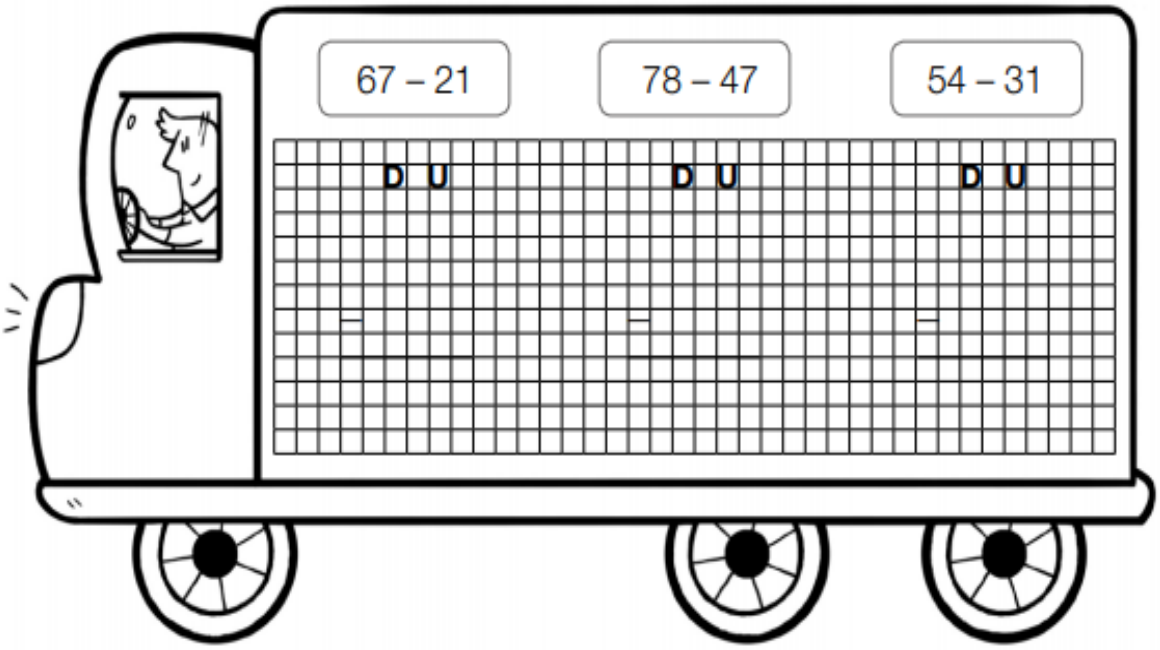

Nombre _____ Fecha _____

1 Cuenta y compara.

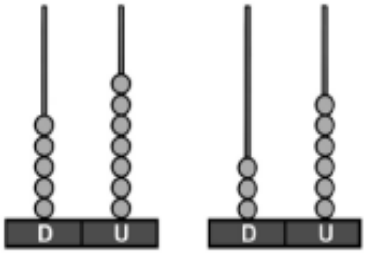

5 es mayor que 3

57 es _____ que ☐

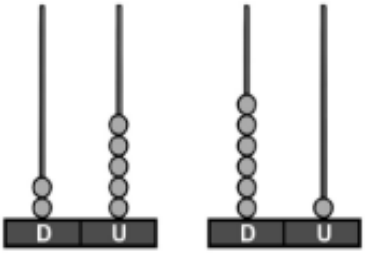

2 es menor que ☐

25 es _____ que ☐

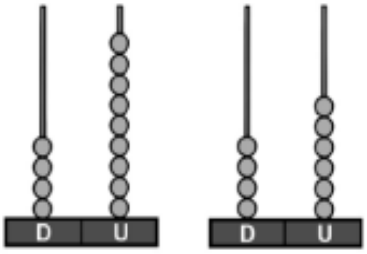

9 es mayor que 6

49 es _____ que ☐

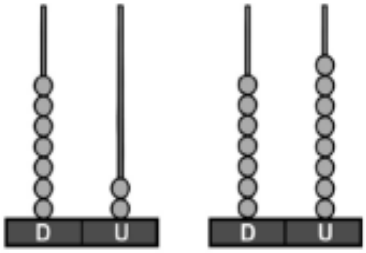

2 es menor que ☐

72 es _____ que ☐

2 Completa. Después, compara y escribe mayor o menor.

29 ▸ ☐ D y ☐ U

71 ▸ ☐ D y ☐ U

29 es _____ que 71

71 es _____ que 29

 MATERIAL FOTOCOPIABLE © 2018 SANTILLANA EDUCACIÓN, S. L.

Los signos > y <

Nombre _____ Fecha _____

❶ Compara y completa.

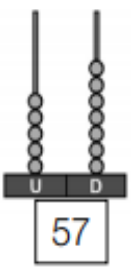

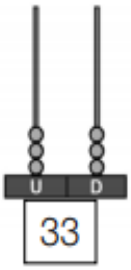

57 es mayor que 33

57 > ☐

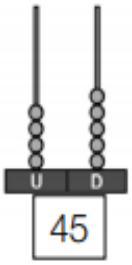

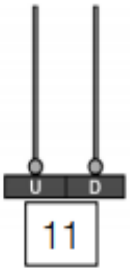

☐ es ☐ que ☐

☐ ○ ☐

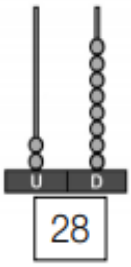

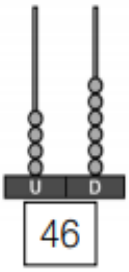

28 es menor que ☐

☐ ○ ☐

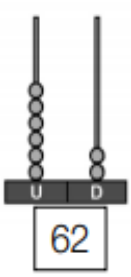

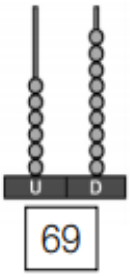

☐ es ☐ que ☐

☐ ○ ☐

❷ Escribe > o < según corresponda y completa.

73 ○ 31 38 ○ 68 66 ○ 79

75 ○ 40 75 ○ 77 42 ○ 51

Nombre _____ Fecha _____

1 **Completa y escribe cómo se lee cada número.**

☐ + ☐ = ☐

☐ decenas y ☐ unidades



☐ + ☐ = ☐

☐ decenas y ☐ unidades

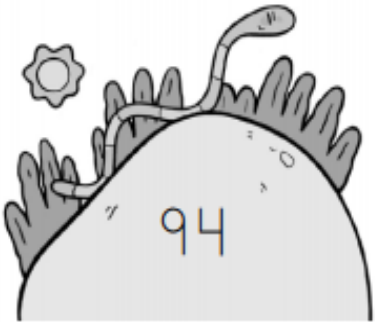

☐ + ☐ = ☐

☐ decenas y ☐ unidades

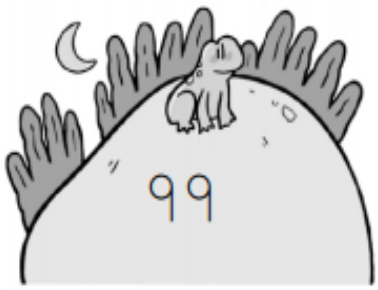

☐ + ☐ = ☐

☐ decenas y ☐ unidades

 MATERIAL FOTOCOPIABLE © 2018 SANTILLANA EDUCACIÓN, S. L.

Los números ordinales

Nombre _____ Fecha _____

1 ¿Qué puesto ocupa cada caracol? Observa la carrera y escribe el ordinal que corresponda.

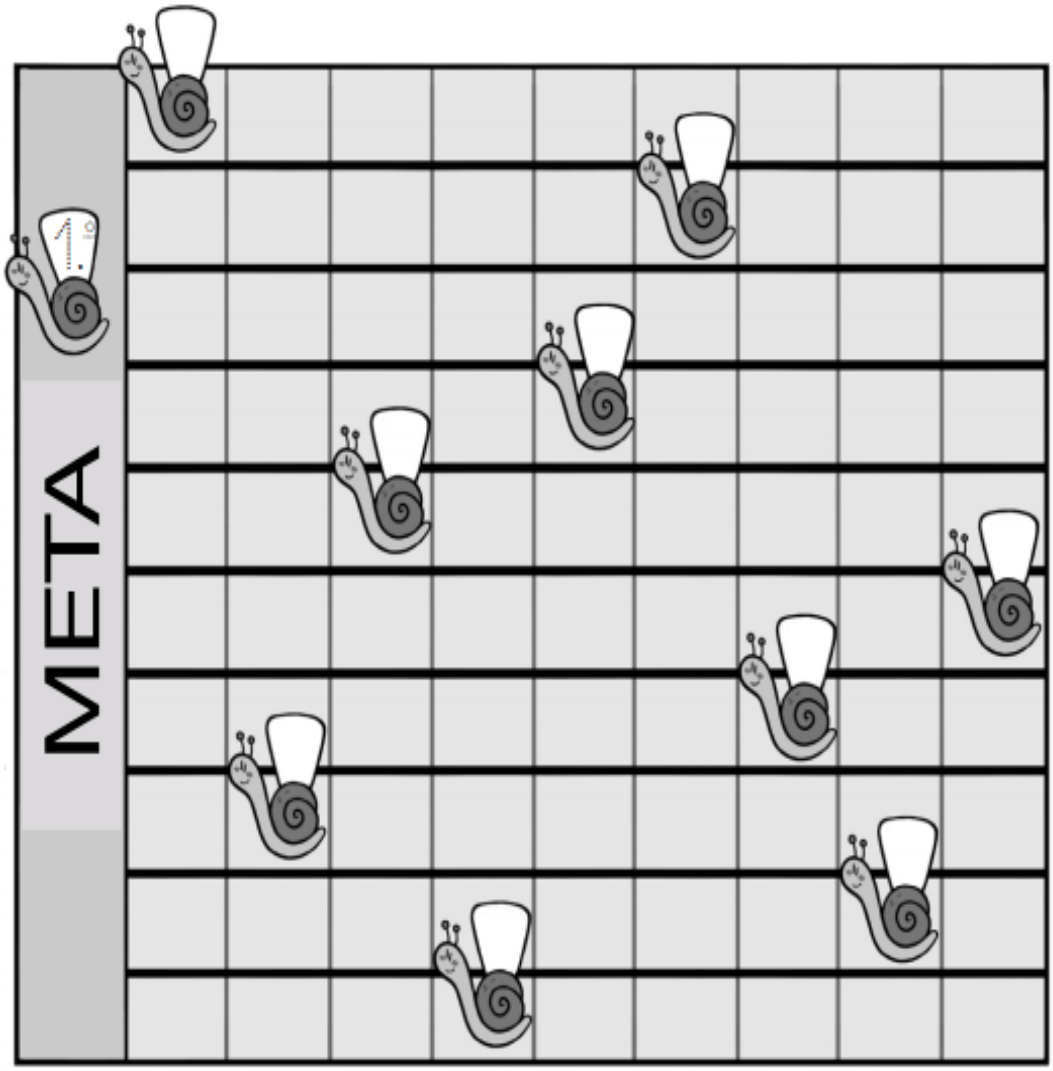

▸ Ahora escribe con letra qué puesto ocupan estos caracoles.

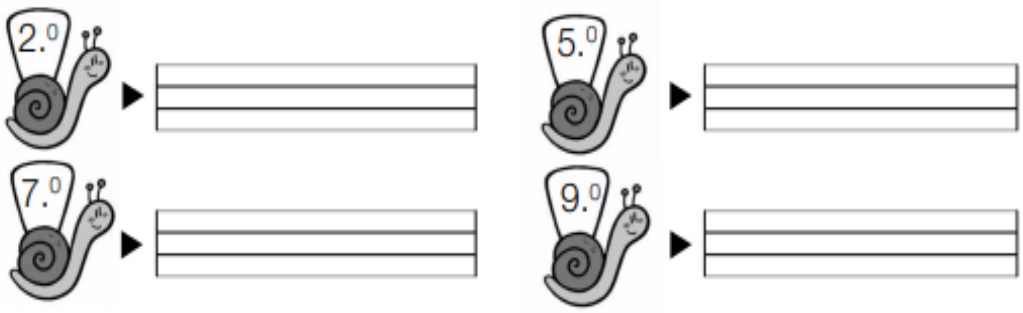

MATERIAL FOTOCOPIABLE © 2018 SANTILLANA EDUCACIÓN, S. L.

Sumas de tres números sin llevar

Nombre _____ Fecha _____

1 Completa y suma.

D U	D U	D U	D U
21	23	15	43
3	14	3	41
+ 32	+ 1	+ 21	+ 5
☐	☐	☐	☐

D U	D U	D U	D U
33	10	24	44
11	17	23	22
+ 35	+ 41	+ 31	+ 13
☐	☐	☐	☐

2 Piensa y resuelve.

En un zoo hay 12 jirafas, 12 cebras y 12 monos.
¿Cuántos animales hay en total?

▶ ☐

▶ ☐

▶ + ☐

☐

Solución ▶ Hay

 MATERIAL FOTOCOPIABLE © 2018 SANTILLANA EDUCACIÓN, S. L.

Nombre _____ Fecha _____

1 Lee, completa los dibujos y resuelve.

Lola pescó 6 peces. Gema pescó 2 peces más que Lola.
¿Cuántos peces pescó Gema?

Peces de Lola ▶

Peces de Gema ▶

☐ + ☐ = ☐ Gema pescó ☐ peces.

Javier tiene 5 libros. Sara tiene 2 libros más que Javier.
¿Cuántos libros tiene Sara?

Libros de Javier ▶

Libros de Sara ▶

☐ + ☐ = ☐ Sara tiene ☐ libros.

José tiene 4 muñecos de dinosaurios. Rocío tiene 3 muñecos más que José. ¿Cuántos muñecos tiene Rocío?

Muñecos de José ▶

Muñecos de Rocío ▶

☐ + ☐ = ☐ Rocío tiene ☐ muñecos.

MATERIAL FOTOCOPIABLE © 2018 SANTILLANA EDUCACIÓN, S. L.

Sumas llevando

Nombre _____ Fecha _____

❶ Observa y completa las sumas.

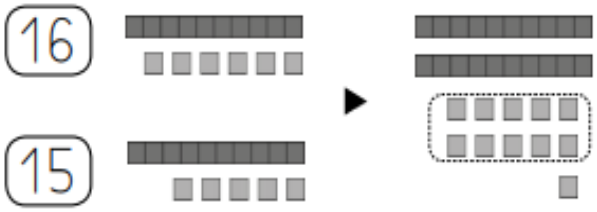

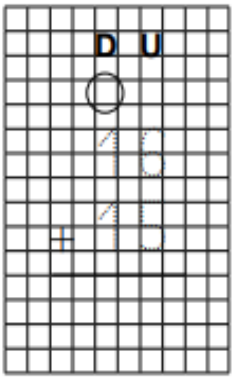

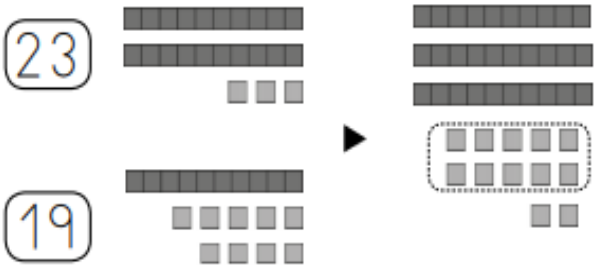

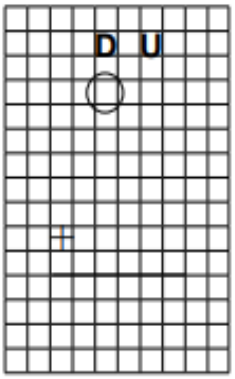

❷ Calcula las sumas.

D U	D U	D U	D U
85	27	42	34
+ 7	+ 32	+ 49	+ 15
☐	☐	☐	☐

▸ Colorea los resultados de las sumas en las que has tenido que llevar una decena.

 MATERIAL FOTOCOPIABLE © 2018 SANTILLANA EDUCACIÓN, S. L.

Nombre _____ Fecha _____

1 Localiza los datos y resuelve.



• ¿Cuántos plátanos hay en total?

Datos ▶ ☐ y ☐

Operación ▶

	D	U
+		

Solución ▶ En total hay

• ¿Cuántas naranjas hay en total?

Datos ▶ ☐ y ☐

Operación ▶

	D	U
+		

Solución ▶ En total hay

Nombre _____ Fecha _____

1 **Lee, piensa si tienes que sumar o restar y resuelve.**

Ángeles tenía 24 libros.
Silvia le ha regalado 12 más.
¿Cuántos libros tiene ahora Ángeles?

Datos ▶ ☐ y ☐

Operación ▶

	D	U

Solución ▶ Tiene

Félix tenía 36 galletas.
Le da 20 galletas a María.
¿Cuántas galletas tiene ahora Félix?

Datos ▶ ☐ y ☐

Operación ▶

	D	U

Solución ▶ Tiene

 MATERIAL FOTOCOPIABLE © 2018 SANTILLANA EDUCACIÓN, S. L.