9 Prueba de control

MODELO **B**

Nombre _____ Fecha _____

1 ¿Qué número es? Cuenta y completa.

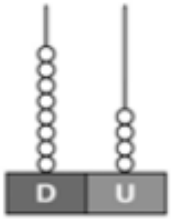

▶

D	U

☐ decenas y ☐ unidades

☐ + ☐ = ☐

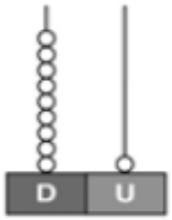

▶

D	U

☐ decenas y ☐ unidad

☐ + ☐ = ☐

2 Rodea los números pares.

36 8 49 22 66 17 88

27 16 54 32 73 2 95

3 Suma.

D	U
11	
13	

+ 21

☐

D	U
43	
33	

+ 3

☐

D	U
15	
23	

+ 30

☐

D	U
24	
31	

+ 2

☐

4 Observa la fila de animales y completa los ordinales. Después, escribe qué lugar ocupa cada animal en la fila.

1.º ☐ ☐ ☐ 5.º ☐ ☐ ☐ ☐ ☐

▶ _____

▶ _____

▶ _____

▶ _____

▶ _____

▶ _____

5 ¿Cuántos puntos tienen en total los tres primeros equipos de esta liga? Observa el tablón y resuelve.



COLEGIO LA LUNA - FÚTBOL SALA -

Los tigres	13 puntos
Los linces	12 puntos
Las panteras	10 puntos
Los leones	9 puntos

Datos ▶ ☐, ☐ y ☐

Operación ▶

Solución ▶ Tiene _____